GÖREV 1- Metni sessiz okuma kurallarına dikkat ederek anlayana kadar okuyalım. Bir büyüğümüze sesli okuma kurallarına uyarak okuyalım ve anlatalım.

DİNİ BAYRAMLARIMIZ



Dini bayramlar, dinimiz açısından önemli ve kutsal sayılan günlerdir. Çevremizde dayanışma ve yardımlaşmayı artırır. İslam'da iki bayram kutlanmaktadır: Ramazan Bayramı ve Kurban Bayramı. Bu bayramlar Müslümanların yaşadığı başka ülkelerde de kutlanır.

Ramazan ayı boyunca oruç tutulur. Ramazan ayı sonunda üç gün bayram olarak kutlanır. Bu bayramda misafirlere şeker, tatlı ikram edilir.

Kurban Bayramı dört gündür. Bu bayramda kurban kesilir. Kurban etleri dostlar, akrabalar ve ihtiyacı olanlarla paylaşılır.

Evlerde bayram öncesi temizlik yapılır, ikramlar hazırlanır. Bayramlarda herkes en güzel kıyafetlerini giyer. Büyükler ziyaret edilir, elleri öpülür. Küslükler unutulur.

GÖREV 2- Ailenizle dini bayramlarda yaptıklarınızı konuşun, sohbet edin. Sonra aşağıdaki soruları yazım kurallarına dikkat ederek defterinize yanıtlayın.

1-Dini bayramlarımız hangileridir?
2-Ramazan Bayramı'nda neler yapıyorsunuz?
3-Kurban Bayramı'nda neler yapılır?
4-Bu bayramlarda en çok ne yapmayı seviyorsun? Neden?
5-Pazar günü hangi dini bayramı kutlayacağız?



GÖREV 3- Evdeki büyüklerinize çocukluklarında bayramları nasıl kutladığını sorun. Yazım kurallarına uyarak defterinize yazın.

GÖREV 4- Aşağıda karışık olarak verilen atasözlerini bulun. Anlamlarını araştırın.

doğar – birlikten- kuvvet
açken- tok- komşusu- bizden- yatan- değildir
taş – duvar – yalnız – olmaz
birlik- nerede – nerede – dirlik – orada
elin- nesi – bir – iki- var- var- sesi- elin
vermeyince- baş – yerinden- taş – başa- kalkmaz

RAMAZAN BAYRAMI'MIZ KUTLU OLSUN!

GÖREV 5- Aşağıdaki ölçü birimleriyle cümleleri tamamlayın.

1- Silgimin boyunu ..... ile ölçerim.
2- Yatağımın uzunluğunu .....ile ölçerim.
3- Sınıfımızın uzun kenarını .....ile ölçerim.
4- Masamızın kısa kenarını.....ile ölçerim.
5- Kardeşimin boyunu .....ile ölçerim.

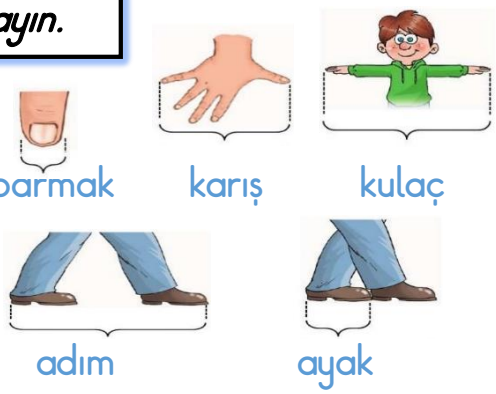

GÖREV 6- Aşağıdaki tabloda Ela ile annesinin ölçüm sonuçları vardır. Bu sonuçlara göre soruları yanıtlayın.

	Ela	Annesi
Kalemin boyu	8 parmak	6 parmak
Odanın boyu	12 adım	10 adım
Kapının eni	7 karış	5 karış

1-Kalem boyu ölçüm sonuçları farkı kaçtır?
2-Oda boyu ölçüm sonuçları toplamı kaçtır?
3-Kapı eni ölçüm sonuçları çarpımı kaçtır?
4- Ela ve annesi neden farklı sonuçlar bulmuş olabilir? Açıklayınız.

GÖREV 7-Aşağıda verilen çetele tablosuna uygun sıklık tablosu ve şekil grafiği çizin. Aşağıdaki soruları da tabloya göre yanıtlayın. (Şekil grafiğinde ● şeklini kullanabilirsiniz.

Tablo: Sevilen sporlar

Sporlar	Öğrenci sayısı
Basketbol	卌 卌 II
Futbol	卌 卌
Yüzme	卌 II
Tenis	卌 IIII

1-En sevilen spor hangisidir?
2-En az sevilen spor hangisidir?
3-Basketbol sevenlerin sayısı kaçtır?
4-Futbol sevenlerin sayısı kaçtır?
5-Tenis ve futbol sevenlerin toplamı kaçtır?
6-Yüzme ve basketbol sevenlerin toplamı kaçtır?

GÖREV 8- Aşağıdaki işlemleri deftere yazın ve yapın.

Unutma! Çıkarma işleminde eksilen verilmediğinde çıkan ile fark toplanır.

□	□	□	□	□	□	□	□	□	□
- 38	- 46	- 24	- 39	- 35	- 39	- 48	- 57	- 32	- 46
24	39	38	19	54	18	53	25	38	24

40 | 4   24 | 4   24 | 3   16 | 4   35 | 5   21 | 3   32 | 4