MATEMATİK

S1.Verilen işlemleri yapalım.

	2	9	5
+	3	4	8

	6	0	4
-	2	8	8

	3	0	6
x			7

8 1 | 3

S2.Verilen sayıların en yakın olduğu onluğu yazalım.

a) 358 : ..... **b) 27 :**..... **c) 473 :**.....

S3. Romen Rakamı ile verilen işlemleri yapalım. Sonuçlarını doğal sayılarla yazalım.

a) XXI x V = **c) XXX - XII =**

b) XIV + XIX = **ç) XVIII ÷ III =**

S4.Aşağıdaki verilen geometrik cisme ait özellikleri yaz.

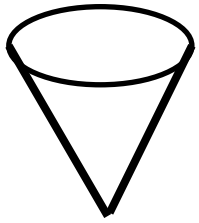

Cismin adı: .....
Yüzey sayısı : .....
Ayrıt sayısı : .....
Köşe sayısı : .....

S5.Şekil üzerindeki açıları gösterelim.

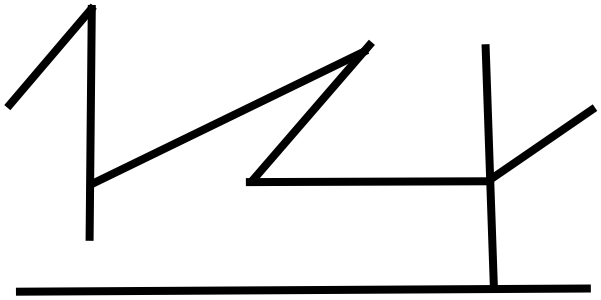

S6. Verilmeyen toplananları bulalım.

	5	☐
+	☐	7
	8	1

	☐	2	☐
+	6	☐	4
	9	0	6

	1	☐	2
+	☐	6	☐
	5	4	7

S7.Sayı değeri (rakam değeri) toplamını bulalım.

a) 86 :..... **b) 724 :**.....

S8. Çözümlenmiş olarak verilen sayıları yazalım.

a) 5 yüzlük + 0 birlik + 4 onluk:

b) 7 birlik + 2 yüzlük + 3 onluk :

S9.Okunuşu verilen sayıları rakamla yazalım.

a) Yüz yirmi : **b) Dokuz yüz altmış sekiz :**

S10. 6 'şar 60 'a kadar ritmik yazalım.

S11.Verilen ifadeye uygun çizimler yapalım.

a) Verilen doğruyu dik kesen bir doğru çizelim.

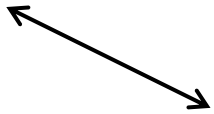

b) Verilen doğru parçasına paralel üç ışın çizelim.

S12.Sayıları <, > , = sembolü yazarak karşılaştıralım.

547	.....	566	111	.....	212
764	.....	827	326	.....	298

S13-

İçecekler	Satış miktarı (adet)
limonata	卌 |||
soda	卌 卌 卌 卌 ||||
çay	卌 卌 卌 卌 卌 卌 卌 卌
gazoz	卌 卌 卌 |

Yukarıda verilen çetele tablosunu, şekil grafiği olarak yeniden yazalım.

İçecekler	Satış miktarı (adet)
limonata	
soda	
çay	
gazoz	

Not: Her şekil 8 içeceği göstermektedir.

S14. Eksileni, çıkanı ve farkı bulalım.

	☐	☐	☐
-	1	0	9
	4	7	6

	7	1	0
-	☐	☐	☐
	3	8	2

	5	4	1
-	2	2	6
	☐	☐	☐

S15.

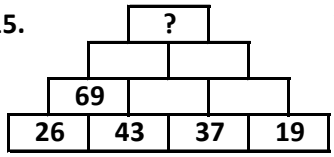

Yandaki şekilde, sayılar aşağıdan yukarıya doğru toplandığında, "?" yerine kaç yazılmalıdır?

S16. 46 + ☐ > 70 eşitsizliğine göre, ☐ yerine yazılabilecek en küçük sayı kaçtır?

TÜRKÇE

S1."Bayram geldiğinde dedemin yanına gideceğiz. " cümlesine göre, aşağıdaki soruları cevapla.

a) Kim ? :

b) Nereye ? : **c) Ne zaman ? :**

S2. Sözcükleri alfabetik sıraya göre yeniden sıralayalım.

" alkış - arazi - afet - atmaca - ağaç - apartman "

S3.Verilen sözcüklerle anlamlı ve kurallı bir cümle yaz.

" diğerinden - bu - küçükmüş - masa - daha "

S3.Yazılışı yanlış olan sözcüklerin doğrusunu yazalım.

a) avkat		**ç)sincab**	
b) hepisi		**d) pırogram**	
c) pisiklet		**e) antireman**	

S4. Nasreddin Hoca'yı bir gece uyku tutmamış.Saatlerce bir sağa dönmüş,bir sola dönmüş,bir türlü gözleri kapanmamış. Sonunda kalkmış, giysilerini üstüne geçirip sokağa çıkmış. Çıkmış ama daha ilk köşebaşında iri yarı bir gece bekçisiyle burun buruna gelmesin mi!

"Söyle bakalım! " diye gürlemiş bekçi. " Gece yarısı sokakta ne arıyorsun? "

Hoca oralı olmamış gibi görünüp," Hiç. " demiş. " Uykum kaçtı da onu arıyorum."

Aşağıdaki soruları verilen metne göre cevaplayalım.

a) Hoca, gece yarısı neden dışarıya çıkmıştır?

b) Hoca, köşebaşında kiminle karşılaşmış?

c) Okuduğumuz metnin türü nedir ?

ç) " Sonunda kalkmış, giysilerini üstüne geçirip sokağa çıkmış." cümlesi kaç heceden oluşur?

S5. Ünlü ile biten bir sözcüğe, ünlü ile başlayan bir ek getirildiğinde, iki ünlü ses arasına y-n-ş-s kaynaştırma harfleri getirilir.

Aşağıdaki sözcüklere kaynaştırma harflerini ekleyerek yeniden yazalım.

hava	**ı**	→	
yumurta	**a**	→	
daire	**e**	→	
ayı	**ı**	→	

FEN BİLİMLERİ

S1.Şişirilmiş bir balon için verilen bilgilerden hangisi doğrudur?

a) Pürüzlüdür b) Esnektir c) Su geçirir

S2.

Çevremizde gördüğümüz bütün canlı ve cansız varlıklar maddedir.

D → **Çiçek, meyve, kolonya, parfüm kokulu maddedir.**

Y → **Su, tuz, demir, altın gibi maddelerin kokusu yoktur.**

D 1. **Y** 2. **D** 3. **Y** 4.

Yukarıda verilen ifadelerin doğru veya yanlış olduğuna karar vererek ilerlediğimizde hangi çıkışa ulaşırız?

a) 2. b) 1. c) 4.

S3. Akvaryumun içini rahatlıkla görebildiğimiz halde,karton kutunun içini göremeyişimizin sebebi ne olabilir?

a) Yumuşak ya da sert oluşları.

b) Pürüzlü ya da pürüzsüz oluşları.

c) Saydam ya da opak oluşları.

S4.

Şemsiye **Bardak** **Kiremit**

Yukarıda verilen maddelerin ortak özelliği nedir?

a) Suda yüzebilir.

b) Su geçirmezler.

c) Mıknatıs tarafından çekilirler.

S5. Duyu organlarımızın sağlığı ile ilgili verilenlerden hangisi doğrudur?

a) Saç ve yüz temizliğine özen göstermeliyiz.

b) Göz sağlımız için günde 12 saat uyumalıyız.

c) Sütü çok sıcak içmeliyiz.

S6.Metal bir kaşığın parlak olma nedeni nedir?

a) Pürüzsüz olması

b) Işığı geçirmesi

c) Işığı yansıtması

S7.Hangi görselde farklı bir kuvvet uygulanmaktadır?

a) b) c)