MATEMATİK

S1.Verilen işlemleri yapalım.

54 × 9	372 × 6	812 × 5
36 × 17	59 × 84	27 × 62

S2.Verilen bölme işlemlerini yapalım.

248 ÷ 5	681 ÷ 4	98 ÷ 3

36 : 6 = 72 : 8 = 15 : 5 =

S3.Okunuşu verilen kesir sayılarını rakamla yazalım.

a) yedide beş = _____ b) üç bölü on dört = _____

S4.Şekillerde verilen kesir sayılarını altlarına yazalım.

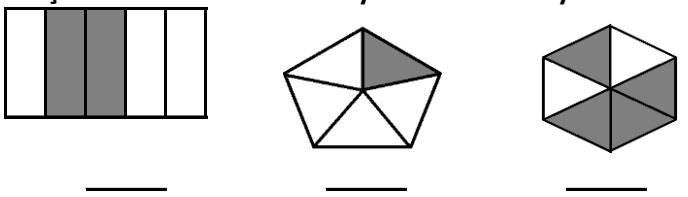

_____ _____ _____

S5. Verilen şeklin simetriğini çizelim.

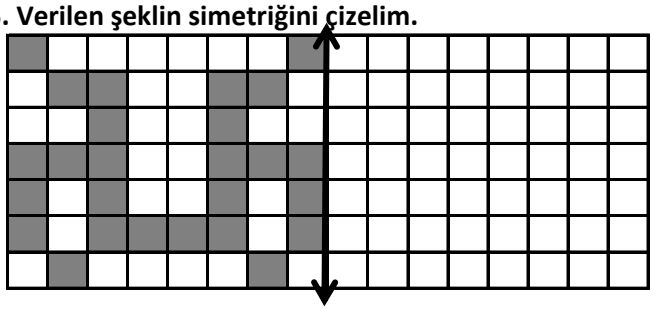

S6.Toplama işlemlerinde verilmeyen sayıları yazalım.

□4□ + 3□1 = 748	1□6 + □8□ = 673	295 + □□□ = 848

S7.Çıkarma işlemlerinde verilmeyen sayıları yazalım.

□7 − 3□ = 49	5□8 − □5□ = 192	□□□ − 276 = 478

S8.Verilen sayıların basamak değeri farkını bulalım.

a) 8 7 :..... b) 2 3 :.....

S9.Aşağıda verilen şeklin alanı kaç birim karedir?

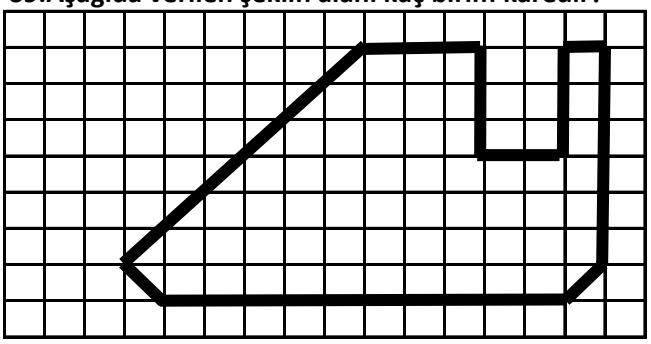

S10. 8 m kumaşın 369 cm'si kullanılıyor. Geriye kaç m kumaş kalmıştır?

S11. $\frac{1}{5}$ 'i 9 olan sayının tamamı kaçtır?

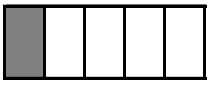

9

S12. Bir dolmuşta bulunan yolcuların $\frac{2}{5}$ 'i bayan, diğer yolcular ise erkektir. Dolmuşta 12 bayan olduğuna göre, erkek yolcu sayısı kaçtır?

12

S13. Saat 16: 24 'te yola çıkan otobüs, üç buçuk saat sonra mola veriyor. Buna göre, otobüs mola verdiğinde saat kaçtır?

S14. Her birinin içinde 8 kitap bulunan 6 kutu aldık. Aldığımız bu kitapları 5 kardeşe eşit olarak paylaştırdık. Paylaşımdan sonra artan kitap sayısı kaç olur?

TÜRKÇE

S1.Verilen eylemlerin karşısına, eylemi yapan kişi adıllarını yazalım. (Ben-Sen-O-Biz -Siz-Onlar)

Eylemlere, "Kim?" sorusunu sorarak cevabı kolayca bulabilirsiniz.

a) seçtik : **d) tırmandı :**

b) şaşırdınız : **e) eğildin :**

c) hoşlandım: **f) istediniz :**

ç) bitirdi : **g) yandım :**

S2. Başta verilen sözcüğün zıt anlamlısını boyayalım.

a) tanıdık →	ülke	el	kişi
b) yabancı →	yerli	mutsuz	özel
c) seyyar →	lamba	sabit	bina
ç) bütün →	para	paragraf	parça

S3."Büyük kolileri güçlükle bagaja yerleştirdik."

a) Cümle kaç sesten oluşur?

b) Cümle kaç heceden oluşur?

c) Cümle kaç sözcükten oluşur?

ç) Cümlede sıfat (ön ad) olan sözcüğü yazınız.

d) Cümlede hâl eki alan sözcükler hangisidir?

S4.Verilen cümlede altı çizili sözcüğü farklı anlamıyla yeni bir cümlede kullanalım.

Bu **metin**de oldukça yararlı bilgiler veriyor.

S5. Verilen cümlelerde sıfat(ön ad) olan sözcükleri kutu içine alarak gösterelim.

a) Tutumlu olmak küçük yaşlarda öğrenilir.

b) Odamı erken vakitte toparladım.

c) Taze ekmekler mis gibi kokuyor.

ç) Harçlığımın bir kısmını kumbarama atarım.

d) Gezen tavuk yumurtası daha organikmiş.

e) Bu maçı alacağız, başka yolu yok!

f) Tüm öğrenciler kendi sınıflarına girdi.

FEN BİLİMLERİ

S1.

1 Taşlar	**3** Sular
2 Toprak	**4** Hava

Yukarıdaki tabloda numaralandırılmış parçalardan hangisi Dünya'nın etrafını saran gaz katmanıdır?

a) 2 b) 3 c) 4

S2. Verilen aletlerin hangisi çalışmak için elektrik enerjisine ihtiyaç duyar?

a) **b)** **c)** 

S3. Aşağıdaki görsellerin hangisinde sallanma hareketinden bahsedilebilir?

a) b) c)

S4. ♦ **Dil** ♦ **Kulak** ♦ **Göz**

Yukarıdaki duyu organlarımızla maddenin hangi özelliğini algılamamız mümkün <u>değildir?</u>

a) şekil b) koku c) tat

S5. Verilenlerden hangisi deri sağlığımızı tehdit eden durumlardan biridir?

a) Düzenli olarak banyo yapmak.

b) Kesici ve delici aletlerden uzak durmak.

c) İçeriğini bilmediğimiz kremleri kullanmak.

S6. ❖ Ses kaynağından uzaklaştıkça sesin şiddeti artar.

❑ Gökgürültüsü doğal bir ses kaynağıdır.

❍ Her sesin bir kaynağı vardır.

Ses ile ilgili olarak verilen bilgilerden hangisi <u>yanlıştır?</u>

a) ❖ b) ❑ c) ❍

S7. Verilen elektrikli aletlerden hangisi evimizin farklı bir bölümünde yer alır?

a) b) c)